2008학년도 11월 고2 전국연합학력평가 문제지

사회탐구 영역(사회 · 문화)

제 4 교시 | 성명 | 수험번호 | 2 | 1

- 먼저 수험생이 선택한 과목의 문제지인지 확인하시오.
- 반드시 자신이 선택한 과목의 문제지를 풀어야 합니다.
- 문제지에 성명과 수험 번호를 정확히 기입하시오.
- 답안지에 수험 번호, 선택 과목, 답을 표기할 때에는 반드시 '수험생이 지켜야 할 일'에 따라 표기하시오.
- 문항에 따라 배점이 다르니, 각 물음의 끝에 표시된 배점을 참고하시오. 3점 문항에만 점수가 표시되어 있습니다. 점수 표시가 없는 문항은 모두 2점씩입니다.

1. 다음 대화에서 을의 사회관에 부합하는 내용을 <보기>에서 고른 것은?

〈보 기〉

ㄱ. 사회는 유기적 체계를 이루고 있는 생명체와 같다.
ㄴ. 사회를 연구할 때는 개인적 요인을 중시해야 한다.
ㄷ. 국가는 개인의 합 이상의 의미를 가진 독립적인 실체이다.
ㄹ. 개인은 자신의 재산과 생명을 지키기 위해 정부를 구성한다.

① ㄱ, ㄴ ② ㄱ, ㄷ ③ ㄴ, ㄷ ④ ㄴ, ㄹ ⑤ ㄷ, ㄹ

2. 다음은 사회학적 개념을 이용한 퍼즐이다. ㉠~㉣에 대한 설명으로 옳은 것은? [3점]

	㉠광				
	㉡역				
	개				
㉢	발			㉣	
	방				
	식				

<세로 열쇠>
㉠ 1980년대 우리나라 지역개발 방식
㉣ 사회적으로 필요한 가치, 규범 등을 학습해 나가는 과정

<가로 열쇠>
㉡ 둘 이상의 역할이 상호 충돌하는 경우 또는 상황
㉢ 공동의 목표와 이해관계를 추구하는 사람들이 자율적으로 만든 집단

① ㉠은 낙후된 지역에 우선적으로 투자하는 개발 방식이다.
② 대학에 진학을 할지 취업을 할지 고민하는 것은 ㉡의 사례이다.
③ ㉢은 퇴니스의 분류 기준에 의하면 공동 사회에 해당한다.
④ ㉣은 청소년기에 주로 이루어지며 성인기에 비로소 완성된다.
⑤ ㉢이 증가하는 사회일수록 ㉡의 발생 가능성이 높다.

3. 다음 ㉠~㉢ 현상에 대한 설명으로 옳지 않은 것은?

> 우리나라는 강수량의 지역적, 계절적 차이 때문에 ㉠홍수와 가뭄이 자주 발생하며, 이는 수자원 이용 측면에서 상당히 불리하였다. 그래서 댐의 건설은 우리나라의 ㉡경제 개발과 국토 개발 과정에서 중요한 부분이 되어 왔다. 댐을 건설함으로써 홍수와 가뭄을 극복하고, 국민 생활과 경제에 필수적인 수자원을 공급할 수 있었다. 그러나 최근 ㉢다목적 댐의 건설로 인해 심각한 환경 문제가 초래될 수 있음을 많은 사람들이 인식하게 되었다.

① ㉠은 인과 법칙이 작용한다.
② ㉡은 인간의 의지와 가치가 반영된다.
③ ㉢은 개연성과 확률의 원리가 지배한다.
④ ㉠은 ㉡에 비해 특수성이 많이 나타난다.
⑤ ㉢에 의해 ㉠의 규칙성이 저하되기도 한다.

4. 다음 (가), (나)에 나타난 관점에 대한 설명으로 옳은 것은? [3점]

> (가) 빈곤은 재산, 권력, 권위 등을 갖지 못하거나 이것들이 특정 집단에 집중되어 있을 때 발생하는 것이다. 그리고 자원 분배가 공정하지 못하다고 여길 때 사회 문제가 된다.
> (나) 빈곤의 원인은 빈곤 집단의 낮은 교육 수준, 사회 부적응 등에 의해 발생한다. 그리고 빈곤 집단이 사회적 역할을 다하지 못할 때 사회 문제가 된다.

① (가)는 빈곤이 발생하는 주관적 상황과 의미규정을 중시한다.
② (가)는 빈곤 문제를 사회적 균형이 깨질 때 나타난다고 본다.
③ (나)는 개인이나 집단의 노력 부족으로 빈곤 문제가 발생한다고 본다.
④ (나)는 소득 분배 구조의 타파를 통해 빈곤 문제를 해결하려고 한다.
⑤ (가)와 (나)는 미시적인 측면에서 빈곤 문제를 분석하고 있다.

5. 다음에서 공통적으로 나타난 사회 이동의 종류로 옳은 것만을 <보기>에서 있는 대로 고른 것은? [3점]

> ○ 노동자였던 갑은 정보 사회가 되면서 일자리를 잃게 되었다. 그러나 남다른 열정과 노력으로 지금은 중소기업의 사장이 되었다.
> ○ 동래현의 관노(官奴) 출신인 을은 과학적 재능이 뛰어나 왕의 특명으로 상의원(尙衣院) 별좌에 발탁되면서 노비 신분에서 벗어나게 되었다.

〈보 기〉

ㄱ. 수직 이동 ㄴ. 세대 내 이동
ㄷ. 구조적 이동 ㄹ. 세대 간 이동

① ㄱ, ㄴ ② ㄴ, ㄹ ③ ㄷ, ㄹ
④ ㄱ, ㄴ, ㄷ ⑤ ㄱ, ㄷ, ㄹ

6. 다음 자료에서 추론할 수 있는 기업의 변화로 옳은 것만을 <보기>에서 있는 대로 고른 것은? [3점]

최근 기업들은 급변하는 사회 환경에 적응하고 생산성을 향상시키기 위해 새로운 변화를 시도하고 있다. 예를 들면 기존의 호봉제 대신에 연봉제와 성과급제를 확대 실시하고 있으며 성과급은 개인의 업무 성과를 많이 반영하고 있는 추세이다.

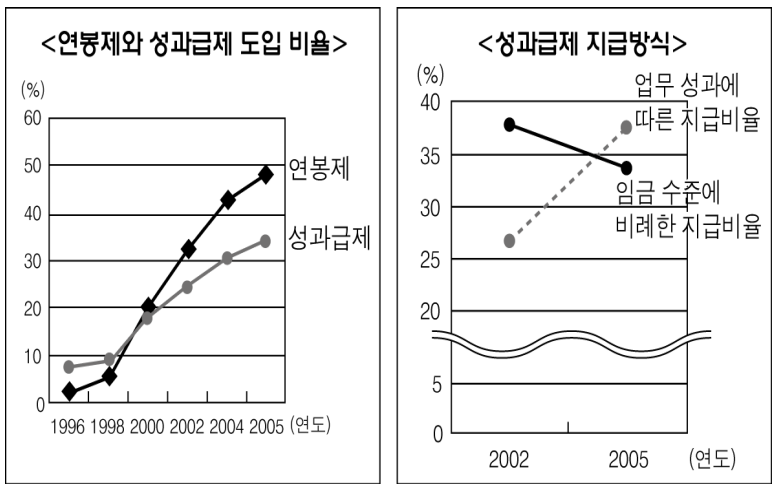

〈 보 기 〉

ㄱ. 무사안일 풍토가 쇄신될 것이다.
ㄴ. 경력에 따른 보상 체계가 강화될 것이다.
ㄷ. 조직 내 구성원 간의 경쟁 체제가 강화될 것이다.
ㄹ. 창의적인 사고를 통한 문제 해결 능력이 향상될 것이다.

① ㄱ, ㄴ ② ㄱ, ㄷ ③ ㄴ, ㄹ
④ ㄱ, ㄷ, ㄹ ⑤ ㄴ, ㄷ, ㄹ

7. 다음 ㉠~㉣에 대한 옳은 설명만을 <보기>에서 있는 대로 고른 것은? [3점]

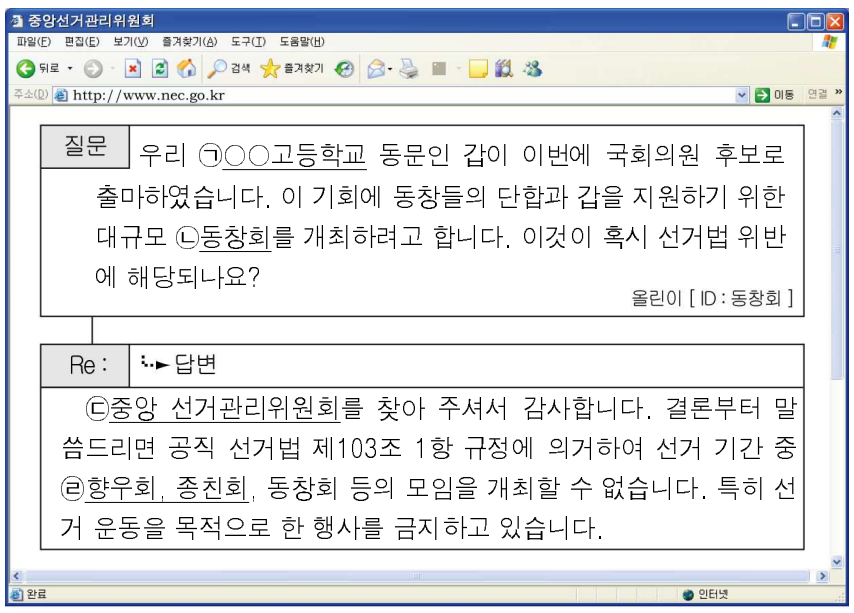

〈 보 기 〉

ㄱ. ㉠은 1차적 사회화 기관에 해당한다.
ㄴ. ㉡은 이익사회에 해당하며 1차적 인간관계를 지향한다.
ㄷ. ㉢은 관련 규정에 따른 업무 수행과 권한의 위계가 강조된다.
ㄹ. ㉣은 개인에게 심리적 욕구 충족과 정서적 안정을 제공한다.

① ㄱ, ㄴ ② ㄱ, ㄷ ③ ㄴ, ㄹ
④ ㄱ, ㄷ, ㄹ ⑤ ㄴ, ㄷ, ㄹ

8. 다음 (가), (나)에서 요구되는 탐구 태도를 바르게 연결한 것은?

(가) 갑은 평소 정치 발전을 위해서는 정당의 역할이 중요하다고 생각하고 정당에 대한 자료를 수집하였다. 그러나 정당에 대한 부정적인 자료는 누락시킨 채 '정당 정치의 활성화를 위해서는 재정 지원의 확대가 필요하다'라는 연구 결과를 발표하였다.
(나) 을 교수는 '혈연 중심의 가족 형태가 사회를 존속시켜 주는 가장 중요한 요소이다'라고 주장하였다. 이에 한 학생이 사회가 다원화됨에 따라 다양한 형태의 가족을 인정해야 한다는 의견을 제시하자 '학생의 의견은 별로 중요하지 않다'며 무시하였다.

	(가)	(나)
①	객관적 태도	개방적 태도
②	객관적 태도	총체적 태도
③	개방적 태도	객관적 태도
④	개방적 태도	총체적 태도
⑤	상대적 태도	개방적 태도

9. 다음은 갑국의 어느 연구 보고서의 일부이다. (가)에 들어갈 옳은 내용을 <보기>에서 고른 것은? [3점]

○ 가설 : 속도 제한 조치가 교통사고 사망자 수를 감소시킬 것이다.
○ 자료 수집 및 자료 분석

<○○시의 교통사고 사망자수>

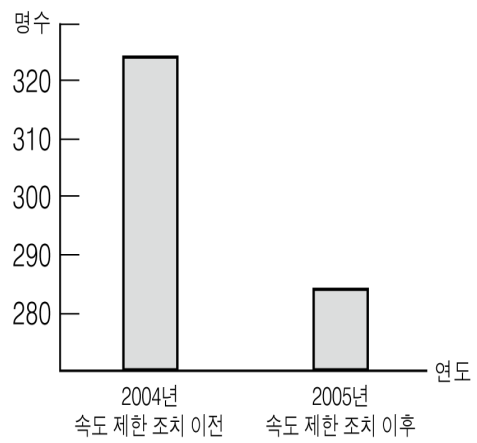

○ 결론 : 속도 제한 조치는 교통 사고 사망자를 줄이는 데 효과가 있다.

평가 : 위 자료만으로 올바른 결론을 도출하기에는 무리가 있다. (가) 를 추가로 조사해야 가설을 올바르게 입증할 수 있다.

〈 보 기 〉

ㄱ. 사망자 수가 가장 적은 속도 분석 자료
ㄴ. 속도 제한 조치를 하지 않은 도시와의 비교 자료
ㄷ. 속도 제한 조치에 따른 시민들의 만족도 분석 자료
ㄹ. 속도 제한 조치 후 몇 년 동안의 결과를 분석한 자료

① ㄱ, ㄴ ② ㄱ, ㄷ ③ ㄴ, ㄷ ④ ㄴ, ㄹ ⑤ ㄷ, ㄹ

10. 다음 내용의 결론과 가장 부합하는 문화의 속성에 대한 설명으로 옳은 것은?

> 과거 농촌에는 구성원 간의 유대감을 높이고 공동체 의식을 유지하는데 마실*이 중요한 수단으로 작용하였다. 하지만 텔레비전이 공급되면서 자기 집에서 연속극을 시청하게 된 농촌 사람들은 마실을 가지 않게 되었고, 공동체 중심의 가치관보다는 도시 사람들만큼 개인주의적 성향을 가지게 되었다. 텔레비전의 보급이 가져온 촌락 공동체 문화의 변화는 사람들의 가치관으로부터 의식주, 여가 문화 등에 이르기까지 광범위하다.
>
> *마실 : 주민들이 한 장소에 모여 다과를 즐기면서 이야기를 나누던 문화

① 한 사회 구성원들은 그 문화의 특성을 공유한다.
② 문화는 사회 구성원들의 행동을 예측 가능하게 한다.
③ 인간은 태어나면서부터 그 사회의 문화를 배우면서 살아간다.
④ 문화 요소는 유기적인 관계를 맺으면서 하나의 체계를 이룬다.
⑤ 문화는 구성원들에게 원활한 생활을 위한 공동의 장을 제공한다.

11. 그림은 우리나라의 지역 개발 방식을 구분한 것이다. (가), (나)에 대한 설명으로 옳지 않은 것은?

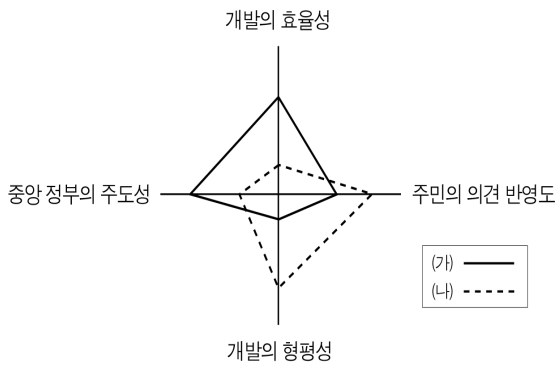

*(가), (나)는 각각 거점 개발 방식과 균형 개발 방식 중 하나에 해당함

① (가)는 분배보다 성장을 중시한다.
② (가)는 특정 지역을 집중 육성한다.
③ (나)는 지역 간 균형 발전을 도모한다.
④ (나)는 (가)보다 개발의 파급 효과를 중시한다.
⑤ (가)보다 (나)는 선진국에서 주로 사용된다.

12. 표는 가사 노동 분담에 대한 성별·경제 활동 상태별 인식을 조사한 것이다. 이에 대한 분석으로 옳지 않은 것은? [3점]

(단위 :%)

구 분		부인 전담	주로 부인	공평하게 분담	주로 남편	남편 전담
성 별	여 성	5.1	56.2	35.9	2.4	0.4
	남 성	9.5	61.3	25.2	3.3	0.7
경제 활동 상 태 별	취업자	7.6	61.0	27.6	3.2	0.6
	실업자	5.5	55.4	35.7	2.7	0.7

① 남성들은 가사 노동을 부인의 주 업무로 인식하고 있다.
② 여성 취업자의 가사 노동 분담에 대한 태도는 알 수 없다.
③ 대부분의 여성들은 가사 노동을 공평하게 분담해야 한다고 인식하고 있다.
④ 가사 노동 분담에 대한 인식은 성역할에 대한 고정관념이 있음을 보여 준다.
⑤ 가사 노동을 부인이 전담해야 한다는 인식은 성별 차이가 경제 활동 상태의 차이보다 크다.

13. 다음에서 도출할 수 있는 결론으로 가장 적절한 것은?

> 미국 ○○대학의 심리학과 연구팀은 1992년 바르셀로나 올림픽에서 메달을 획득한 선수들의 만족도를 측정하였다. 그 결과 동메달을 딴 선수들의 만족도가 은메달을 딴 선수들의 만족도보다 높게 나왔다. 분석 결과 은메달을 딴 선수들은 금메달을 딴 선수들과 비교하며 아쉬워하였으나, 동메달을 딴 선수들은 메달을 따지 못한 선수들과 비교하며 안도하였기 때문이었다. 즉 그들은 은메달을 '아쉬운 은메달'로, 동메달은 '값진 동메달'로 여기고 있었다.

① 보상 체계가 높을수록 만족도가 증가한다.
② 객관적인 성취도가 주관적인 감정보다 중요하다.
③ 역할에 대한 기대가 높을수록 성취 수준이 높아진다.
④ 사람마다 가치 판단의 기준으로 삼는 집단이 서로 다르다.
⑤ 개인들이 추구하는 목표와 성취도가 일치하는 것은 아니다.

14. 다음에서 교사의 질문에 옳게 대답한 학생만을 있는 대로 고른 것은?

> 교사 : 문화의 범주에 해당하는 사례는 무엇이 있을까요?
> 갑 : 사람들은 목이 마르면 물을 마십니다.
> 을 : 현대 사람들은 잠을 잘 때 주로 침대를 이용합니다.
> 병 : 영희는 말을 하면서 눈을 찡그리는 버릇이 있습니다.
>
> 교사 : 문화의 개념이 좁은 의미로 사용된 사례는 무엇이 있을까요?
> 정 : 문화 상품권에서 문화는 좁은 의미로 사용된 것입니다.
> 무 : 한국 문화, 청소년 문화는 좁은 의미로 사용된 경우입니다.

① 갑, 병 ② 을, 정 ③ 을, 무
④ 갑, 병, 무 ⑤ 을, 병, 정

15. 다음에서 갑이 사용한 연구 방법에 대한 옳은 설명을 <보기>에서 고른 것은?

> 심리학자 갑은 '사람의 수가 많을수록 어려움에 처한 사람을 도와줄 비율이 높을 것이다'라는 연구를 진행하였다. 인원수가 다른 표본 집단을 구성하여 각각의 방에 들어가 대화를 나누게 하였다. 그리고 대화 도중 참여자로 위장한 배우가 갑자기 심한 복통을 호소하게 한 후 참여자들이 연구자에게 도움을 요청하는지를 수차례 관찰하였다. 그러나 참여자가 많을수록 책임감이 분산되어 위험에 처한 타인을 도와주지 않는 비율이 더 높은 것으로 나타났다.

〈 보 기 〉

ㄱ. 계량화의 방법을 통해 사회 현상을 연구한다.
ㄴ. 변인 간의 관계를 파악하여 일반화를 시도한다.
ㄷ. 인간의 개인행동과 관련된 의미를 파악하고자 한다.
ㄹ. 방법론적 이원론에 기초하여 사회 현상을 분석하고 있다.

① ㄱ, ㄴ ② ㄱ, ㄷ ③ ㄴ, ㄷ ④ ㄴ, ㄹ ⑤ ㄷ, ㄹ

16. 다음에 나타난 문화 이해의 태도에 대한 비판으로 가장 적절한 것은?

> 아마존 강 유역에 사는 야노마뫼족은 인구증가로 인한 식량부족 현상을 막기 위해 여아를 살해하는 풍속이 있다. 이로 인해 여자가 부족해지면 다른 부족의 여자를 납치하기 위해 주기적으로 전쟁을 벌인다. 이는 종족 보존을 위한 어쩔 수 없는 현상이므로 나쁘다고 볼 수 없다.

① 문화의 다양성을 인정해야 한다.
② 자문화 중심주의에 기반을 두어서는 안 된다.
③ 문화는 전체적인 맥락 속에서 이해해야 한다.
④ 문화적 주체성을 가지고 문화를 이해해야 한다.
⑤ 문화는 인류의 보편적 가치에 기반하여 이해해야 한다.

17. 다음은 수업 과정안의 일부이다. (가)에 부합하는 진술로 가장 적절한 것은? [3점]

도입	학습목표	문화를 이해하는 관점으로써 (가) 의 특징을 설명할 수 있다.
전개	ㅇ 자기 문화의 입장이 아닌 그 사회의 입장에서 문화를 이해해야 하는 이유는 무엇인지 알아본다. ㅇ '우수한 문화', '열등한 문화'라는 표현에 나타난 문제점이 무엇인지 발표해 본다.	

① 콜럼버스의 개척 정신은 신대륙을 발견하여 역사 발전을 앞당기는 성과를 이뤄냈다.
② 베이비붐 세대들이 사회에 진출할 때 고용 창출과 주택 보급 등의 사회 문제가 발생했다.
③ 중국인들이 차(茶)를 자주 마시는 이유는 수질이 좋지 않고 기름진 음식을 즐겨 먹기 때문이다.
④ 아시아의 근대화 과정을 살펴보면 모든 문화가 유사한 단계를 거쳐 진보하고 있다는 것을 알 수 있다.
⑤ 혼인 문화 중에는 인도처럼 신부에게 지참금을 요구하는 사회도 있고 마사이족처럼 신부대(新婦貸)를 지불하는 사회도 있다.

18. 다음과 같이 인구 변화가 지속될 때 나타날 수 있는 사회 현상으로 적절하지 않은 것은?

> 통계청에 의하면 인구 천 명당 출생아 수는 1970년 31.2명이었던 것이 1985~1996년에는 인구 천 명당 15~16명 수준으로 감소하였으며 2005년에는 9.0명 수준이 되었다. 반면 평균 수명은 1970년 남자 58.7세, 여자 65.6세이었던 것이 1995년에는 남자 70세, 여자 77세로 늘어났으며 2005년에는 남자 75.1세, 여자 81.9세가 되었다.

① 노년 부양비가 증가할 것이다.
② 유소년 부양비가 감소할 것이다.
③ 가족의 사회적 기능이 강화될 것이다.
④ 국민 경제의 성장 잠재력이 약화될 것이다.
⑤ 은퇴 이후의 삶에 대한 관심이 높아질 것이다.

19. 밑줄 친 (가)에 들어갈 적절한 내용을 <보기>에서 고른 것은? [3점]

> ○○연구팀은 추가적 우편 발송이 질문지의 회수율을 높이는데 효과가 있을 것이라고 판단하고, 응답하지 않은 사람들을 대상으로 추가 발송을 하였다. 그 결과는 다음과 같다.

우편 발송	시기	누적 회신율(%)
1. 최초의 우편 질문	제 1주	43.8
2. 질문지 추가 우송(1차)	제 3주	62.0
3. 질문지 추가 우송(2차)	제 5주	84.0

> 그러나 추가 우편 발송으로 응답률이 제고되었으나 질문지법의 (가) 를 해결할 수 없는 한계점은 여전히 남아있다.

〈 보 기 〉
ㄱ. 무성의하게 응답하는 문제
ㄴ. 깊이 있는 정보를 확보할 수 없는 문제
ㄷ. 예상치 못한 변수를 통제할 수 없는 문제
ㄹ. 표본 수가 적어서 신뢰도가 떨어지는 문제

① ㄱ, ㄴ ② ㄱ, ㄷ ③ ㄴ, ㄷ ④ ㄴ, ㄹ ⑤ ㄷ, ㄹ

20. 다음은 갑국의 세대 간 이동에 따른 계층 구성비를 나타낸 것이다. 이에 대한 옳은 분석만을 <보기>에서 있는 대로 고른 것은? [3점]

부모의 계층 (%)

자녀의 계층 (%) 구분	A	B	C	계
A	21.1	23.0	3.0	100
B	3.5	33.4	1.7	
C	5.4	3.6	5.3	
계	100			

*A, B, C는 각각 상류층, 중류층, 하류층 중 하나에 해당함
**A는 대부분의 선진국에서 인구의 다수를 차지하고 있는 계층임
***B는 피라미드형 계층 구조에서 가장 높은 비율을 보이고 있는 계층임

〈 보 기 〉
ㄱ. 세대 간 이동은 하강 이동보다 상승 이동이 더 많다.
ㄴ. 폐쇄적 계층 구조에서 개방적 계층 구조가 되었다.
ㄷ. 부모 세대보다 자녀 세대에서 사회 안정도가 더 높다.
ㄹ. 부모의 계층 지위가 대물림되는 비율은 하류층이 가장 높다.

① ㄱ, ㄴ ② ㄱ, ㄷ ③ ㄴ, ㄹ
④ ㄱ, ㄴ, ㄷ ⑤ ㄱ, ㄷ, ㄹ

※ 확인사항
○ 문제지와 답안지의 해당란을 정확히 기입(표기)했는지 확인하시오.